الاسم: _____ التاريخ: _____

التمثيل بالأعمدة

اقرأ التمثيل وأجب عن الأسئلة.

1.

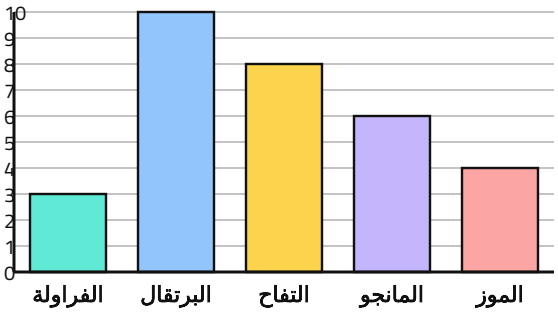

أي الأعمدة هو الأكبر؟ _____

كم قيمة المانجو؟ _____

الفرق بين المانجو والبرتقال؟ _____

المجموع الكلي؟ _____

2.

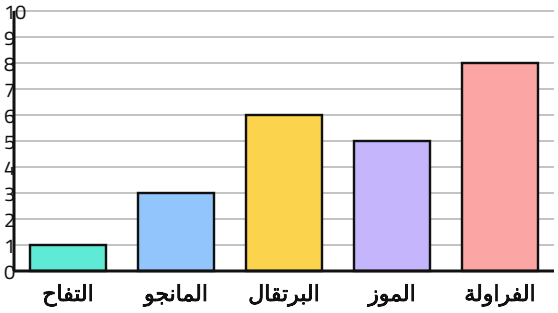

أي الأعمدة هو الأكبر؟ _____

كم قيمة الفراولة؟ _____

الفرق بين الفراولة والموز؟ _____

المجموع الكلي؟ _____

التمثيل بالأعمدة

مفتاح الإجابات

اقرأ التمثيل وأجب عن الأسئلة.

.1

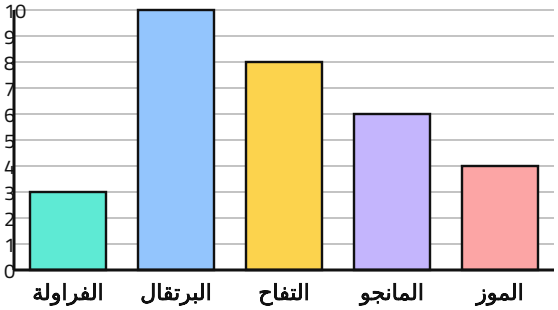

أي الأعمدة هو الأكبر؟ **البرتقال**

كم قيمة المانجو؟ **6**

الفرق بين المانجو والبرتقال؟ **4**

المجموع الكلي؟ **31**

.2

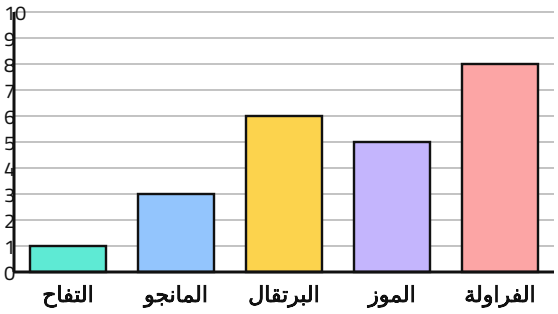

أي الأعمدة هو الأكبر؟ **الفراولة**

كم قيمة الفراولة؟ **8**

الفرق بين الفراولة والموز؟ **3**

المجموع الكلي؟ **23**